4H3-3 Comp 1

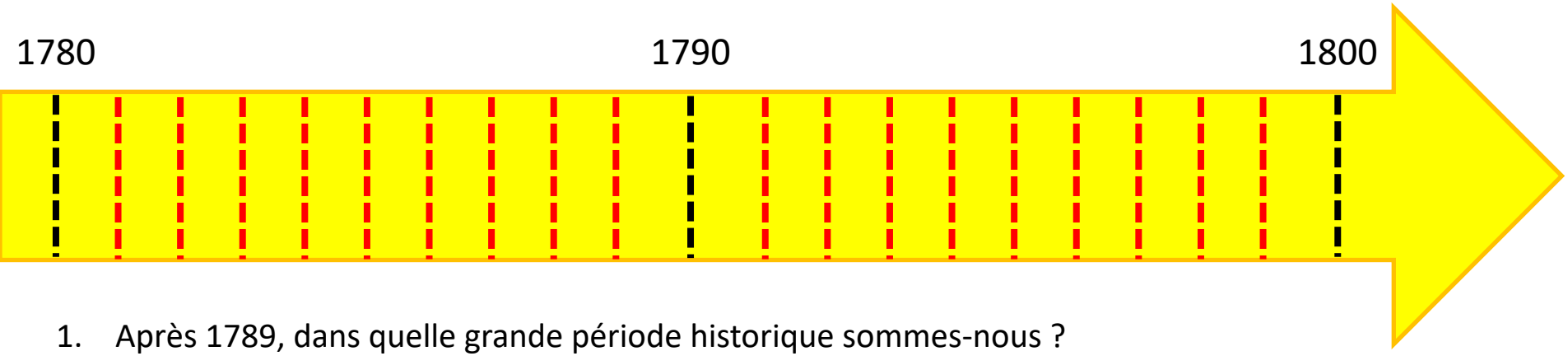

1. Après 1789, dans quelle grande période historique sommes-nous ?
2. Combien de temps a duré cette période historique jusqu'à aujourd'hui ?
3. Quelle date choisirais-tu pour la fin de la monarchie absolue de droit divin ? Explique ton choix.
4. Quelle date choisirais-tu pour la fin de la monarchie constitutionnelle ? Explique ton choix.
5. Quelle date choisirais-tu pour la fin de la République ? Explique ton choix.
6. Regarder les images de l'autre feuille (Comp 3) et dater les évènements.
7. Combien de temps s'écoule entre le début de la Révolution et la naissance de la 1ère République ?
8. Combien de temps a duré l'espoir d'une monarchie constitutionnelle en France?
9. Combien de temps a duré la Terreur ?

1. Dans le domaine social…
2. Dans le domaine politique…
3. Dans le domaine économique…
4. Dans le domaine religieux…
5. Dans le domaine judiciaire…

4H3-3 Comp 3





Expliquez l'importance de ces évènements

4H3-3 Comp 5

ANGLAIS
HOLLANDAIS
Rhin
ANGLETERRE
AUTRICHIENS
PRUSSIENS
PRUSSIENS
AUTRICHIEN
MANCHE
Fleurus
(juin 1794)
Seine
NORMANDIE
PARIS
BRETAGNE
Savenay
Loire
ANGLAIS
Nantes
Cholet
VENDÉE
OCÉAN
ATLANTIQUE
Lyon
SARDES
Bordeaux
Rhône
SARDES
Garonne
PROVENCE
Marseille
Toulon
ESPAGNOLS
ESPAGNE
CORSE
ANGLAIS
ANGLAIS
ESPAGNOLS
0
200 km
MER MÉDITERRANÉE